Haz grupos de 10 y cuenta la decenas y unidades. Después haz la suma para averiguar el total

** Recuerda que una decena son 10 unidades.



¿Cuantas decenas has contado ?

¿Cuantas unidades quedan sueltas?

¿Cuantos corazones hay en total?



¿Cuantas decenas has contado ?

¿Cuantas unidades quedan sueltas?

¿Cuantos cohetes hay en total?



¿Cuantas decenas has contado ?

¿Cuantas unidades quedan sueltas?

¿Cuantos emojis hay en total?



¿Cuantas decenas has contado ?

¿Cuantas unidades quedan sueltas?

¿Cuantos hamburguesas hay en total?



¿Cuantas decenas has contado ?

¿Cuantas unidades quedan sueltas?

¿Cuantos muñecos de nieve hay en total?